お金は いくら？

ステップ 1／8 きほん

ポイント お金の 大きさでは なく、書いてある 数を 見よう。
おさいふの 中に いくら 入っているかな？大きい お金から 数えると まちがえにくいよ。

1 ぜんぶで 何円ですか。 きほん

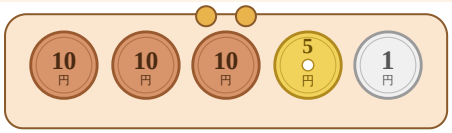

答え ＿＿ 円

2 ぜんぶで 何円ですか。 きほん

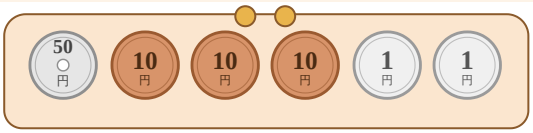

答え ＿＿ 円

3 ぜんぶで 何円ですか。 きほん

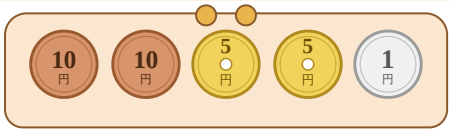

答え ＿＿ 円

4 ぜんぶで 何円ですか。 きほん

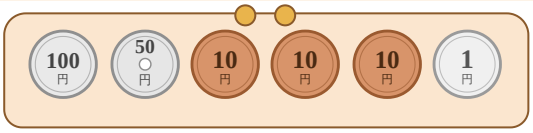

答え ＿＿ 円

5 30円と 同じ ほうを えらぼう。

ア

イ

ア ・ イ

6 60円と 同じ ほうを えらぼう。

ア

イ

ア ・ イ

7 100円と 同じ ほうを えらぼう。

ア

イ

ア ・ イ

8 おさいふの 中は ぜんぶで 何円ですか。 ★チャレンジ

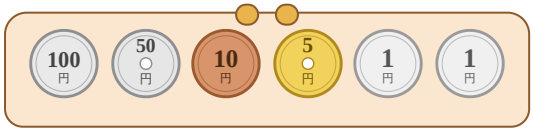

100円→50円→10円→5円→1円の じゅんに たすと まちがえにくいよ。

答え ＿＿ 円

9 おさいふの 中は ぜんぶで 何円ですか。 ★チャレンジ

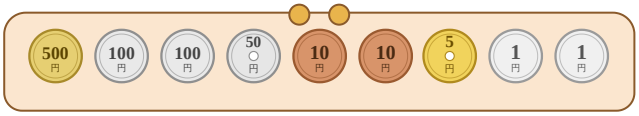

大きい お金から じゅんに たそう。

答え ＿＿ 円

おわったら ○を つけよう ◯ できた！ ◯ もういちど！

すたぺんドリル | もんだい https://startoo.co/sutapen/

しゅるいごとに 数えよう

ステップ 2／8　きほん

れい　10円 2まいと 1円 3まい → 20円＋3円＝23円
同じ しゅるいの お金を 先に まとめると、数えやすいね。

1 しゅるいごとに 数えよう。　きほん

10円の 分：　　円

1円の 分：　　円

ぜんぶで　　円

2 しゅるいごとに 数えよう。　きほん

10円の 分：　　円

5円の 分：　　円　1円の 分：　　円

ぜんぶで　　円

3 ぜんぶで 何円ですか。

答え　　円

4 ぜんぶで 何円ですか。

答え　　円

5 ぜんぶで 何円ですか。

答え　　円

6 ぜんぶで 何円ですか。

答え　　円

7 お金が ばらばらに 入っています。ぜんぶで 何円ですか。　★チャレンジ

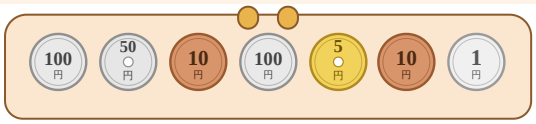

100円は 何まい？ 10円は 何まい？ しゅるいごとに まとめてから たそう。

答え　　円

8 お金が ばらばらに 入っています。ぜんぶで 何円ですか。　★チャレンジ

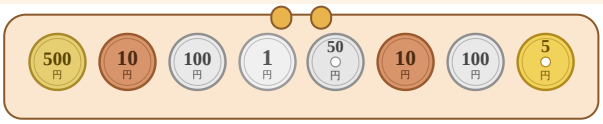

100円は 何まい？ 10円は 何まい？ しゅるいごとに まとめてから たそう。

答え　　円

おわったら ○を つけよう　◯ できた！　◯ もういちど！

同じ 金がくに かえよう

ステップ 3／8 きほん

れい 20円 → 10円が 2まい。金がくは 同じ 20円。
まい数が かわっても、金がくは かわりません。

1 おなじ 金がくに かえます。何まいに なりますか。 きほん

10円 → 1円 が [ ] まい　100円 → 10円 が [ ] まい　50円 → 10円 が [ ] まい

500円 → 100円 が [ ] まい　100円 → 50円 が [ ] まい　500円 → 50円 が [ ] まい

2 何まいに なりますか。 きほん

300円→100円が [ ] まい　200円→50円が [ ] まい　70円→10円が [ ] まい

1000円→100円が [ ] まい　1000円→500円が [ ] まい　40円→5円が [ ] まい

3 ぜんぶで 何円に なりますか。

10円が 13まいで [ ] 円　50円が 4まいで [ ] 円　100円が 12まいで [ ] 円

5円が 6まいで [ ] 円　500円が 3まいで [ ] 円　10円が 25まいで [ ] 円

4 同じ 金がくに かえると、何まいに なりますか。 ★チャレンジ

300円→50円が [ ] まい　1000円→50円が [ ] まい

150円→10円が [ ] まい　500円→10円が [ ] まい

50円が 2まいで 100円。100円の まい数から 考えよう。

おわったら ○を つけよう　○ できた！　○ もういちど！

すたぺんドリル | もんだい https://startoo.co/sutapen/

ちょうど はらおう

ステップ 4／8 れんしゅう

ポイント お店の 人に、ちょうどの 金がくを わたそう。
下に 書いてある お金の しゅるいと まい数だけ つかえます。

1 130円を はらう くみあわせを 書きましょう。 きほん

100円 2まいまで　10円 5まいまで

100円 ＿＿ まい　10円 ＿＿ まい

2 170円を はらう くみあわせを 書きましょう。 きほん

100円 1まいまで　50円 2まいまで　10円 4まいまで

100円 ＿＿ まい　50円 ＿＿ まい

10円 ＿＿ まい

3 320円を はらう くみあわせを 書きましょう。 きほん

100円 3まいまで　50円 1まいまで　10円 4まいまで

100円 ＿＿ まい　50円 ＿＿ まい

10円 ＿＿ まい

4 260円を はらう くみあわせを 書きましょう。 きほん

100円 3まいまで　50円 1まいまで　10円 4まいまで

100円 ＿＿ まい　50円 ＿＿ まい

10円 ＿＿ まい

5 100円を はらう くみあわせを ぜんぶ 書きましょう。 ★チャレンジ

100円 1まいまで　50円 2まいまで　10円 4まいまで

① ＿＿＿＿＿＿

② ＿＿＿＿＿＿

6 150円を はらう くみあわせを ぜんぶ 書きましょう。 ★チャレンジ

100円 1まいまで　50円 2まいまで　10円 5まいまで

① ＿＿＿＿＿＿

② ＿＿＿＿＿＿

③ ＿＿＿＿＿＿

100円を つかう ときと、つかわない ときに 分けて 考えよう。

おわったら ○を つけよう　◯ できた！　◯ もういちど！

すたぺんドリル | もんだい https://startoo.co/sutapen/

おかいものと おつり

ステップ 5／8　れんしゅう

ポイント　おやつや プレゼントを 買おう！ おつりも たしかめてね。
あわせた 金がくを 出してから、出す お金から ひきます。

1 あめを 1つ 買います。100円 出すと、おつりは 何円ですか。　きほん

あめ
70円

出す お金
100円

しき

おつり　　円

2 ジュースを 1つ 買います。500円 出すと、おつりは 何円ですか。　きほん

ジュース
260円

出す お金
500円

しき

おつり　　円

3 パンと りんごを 1つずつ 買います。

パン
80円

りんご
130円

出す お金
500円

しき

あわせて　　円　おつり　　円

4 ミルクと アイスを 1つずつ 買います。

ミルク
90円

アイス
240円

出す お金
500円

しき

あわせて　　円　おつり　　円

5 シールと 本を 1つずつ 買います。

シール
180円

本
470円

出す お金
1000円

しき

あわせて　　円　おつり　　円

6 えんぴつと けしゴムと ノートを 1つずつ 買います。　★チャレンジ

えんぴつ
60円

けしゴム
90円

ノート
120円

出す お金
500円

しき

あわせて　　円　おつり　　円

おわったら ○を つけよう　◯ できた！　◯ もういちど！

お金は 足りるかな？

ステップ 6／8 れんしゅう

ポイント ほしい ものを 見つけた！ お金は 足りるかな？
1・2は、買えるかどうかと わけを 書きましょう。

1 250円 もっています。230円の ノートを 買えますか。 きほん

ノート

ねだん **230円**
もっている お金 **250円**

買える ・ **買えない**

わけ _____

2 300円 もっています。340円の アイスを 買えますか。 きほん

アイス

ねだん **340円**
もっている お金 **300円**

買える ・ **買えない**

わけ _____

3 150円 もっています。190円の シールには 何円 足りませんか。

シール

ねだん **190円**
もっている お金 **150円**

しき _____

答え [ ] 円

4 400円 もっています。560円の 本には 何円 足りませんか。

本

ねだん **560円**
もっている お金 **400円**

しき _____

答え [ ] 円

5 500円 もっています。パンと ジュースを 買えますか。買えるなら、のこりは 何円？ ★チャレンジ

パン
140円

ジュース
110円

もっている お金
500円

しき _____

買える ・ **買えない** のこり [ ] 円

6 600円 もっています。本と ジュースを 買えますか。買えないなら、何円 足りない？ ★チャレンジ

本
380円

ジュース
250円

もっている お金
600円

しき _____

買える ・ **買えない** 足りない [ ] 円

おわったら ○を つけよう ◯ できた！ ◯ もういちど！

たしかめテスト ①

ステップ 7／8　テスト

テスト　1もん 10点 ／ ぜんぶで 100点。
お金を 数える・かえる もんだいです。

ごうけい ＿＿＿＿＿ ／100点

1 ぜんぶで 何円ですか。　10円 10円 5円 1円 1円　答え ＿＿＿ 円　10点

2 ぜんぶで 何円ですか。　50円 10円 10円 5円　答え ＿＿＿ 円　10点

3 ぜんぶで 何円ですか。　100円 50円 10円 10円 1円　答え ＿＿＿ 円　10点

4 ぜんぶで 何円ですか。　100円 100円 50円 5円 1円 1円　答え ＿＿＿ 円　10点

5 ぜんぶで 何円ですか。　500円 100円 10円 10円 10円 1円　答え ＿＿＿ 円　10点

6 300円を 100円だけに かえます。100円は 何まいに なりますか。　300円 → 100円　答え ＿＿＿ まい　10点

7 100円を 50円だけに かえます。50円は 何まいに なりますか。　100円 → 50円　答え ＿＿＿ まい　10点

8 500円を 100円だけに かえます。100円は 何まいに なりますか。　500円 → 100円　答え ＿＿＿ まい　10点

9 60円と 同じ ほうを えらびましょう。　ア 50円 10円　イ 10円 10円 10円 10円 10円　ア ・ イ　10点

10 180円を はらう くみあわせを 書きましょう。　10点

100円 1まいまで　50円 1まいまで　10円 4まいまで

100円 ＿＿＿ まい　50円 ＿＿＿ まい　10円 ＿＿＿ まい

おわったら ○を つけよう　◯ できた！　◯ もういちど！

たしかめテスト ②

ステップ 8／8　テスト

テスト

1もん 10点 ／ ぜんぶで 100点。

しきや わけを 書く もんだいは、考え方 5点＋答え 5点。3・4は わけも 書こう。

ごうけい ＿＿＿＿ ／100点

1 80円の ガムを 1つ 買います。100円 出すと、おつりは 何円ですか。　10点

しき ＿＿＿＿　おつり ［　］ 円

2 650円の 本を 1さつ 買います。1000円 出すと、おつりは 何円ですか。　10点

しき ＿＿＿＿　おつり ［　］ 円

3 450円 もっています。480円の 本は 買えますか。　10点

買える ・ 買えない

わけ ＿＿＿＿

4 250円 もっています。230円の ノートは 買えますか。　10点

買える ・ 買えない

わけ ＿＿＿＿

5 120円の ノートと 160円の シールを 買います。500円 出すと、おつりは 何円ですか。　10点

しき ＿＿＿＿　あわせて ［　］ 円　おつり ［　］ 円

6 90円の ミルクと 240円の アイスを 買います。500円 出すと、おつりは 何円ですか。　10点

しき ＿＿＿＿　あわせて ［　］ 円　おつり ［　］ 円

7 200円 もっています。260円の アイスには 何円 足りませんか。　10点

しき ＿＿＿＿　答え ［　］ 円

8 500円 もっています。140円の パンと 110円の ジュースを 買うと、のこりは 何円？　10点

しき ＿＿＿＿　のこり ［　］ 円

9 260円を はらう くみあわせを 書きましょう。　10点

3まいまで　1まいまで　4まいまで

100円 ［　］ まい　50円 ［　］ まい　10円 ［　］ まい

10 ぜんぶで 何円ですか。　10点

答え ［　］ 円

おわったら ○を つけよう　◯ できた！　◯ もういちど！