お金は いくら？

ステップ 1／8 きほん

ポイント お金の 大きさでは なく、書いてある 数を 見よう。
おさいふの 中に いくら 入っているかな？大きい お金から 数えると まちがえにくいよ。

1 ぜんぶで 何円ですか。 きほん

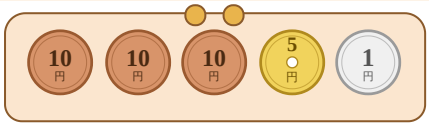

答え 36 円

30＋5＋1＝36円。

2 ぜんぶで 何円ですか。 きほん

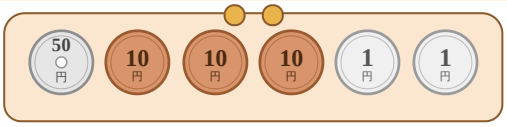

答え 82 円

50＋30＋2＝82円。

3 ぜんぶで 何円ですか。 きほん

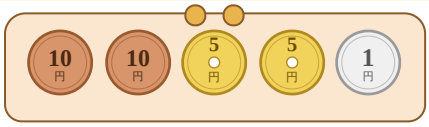

答え 31 円

20＋10＋1＝31円。

4 ぜんぶで 何円ですか。 きほん

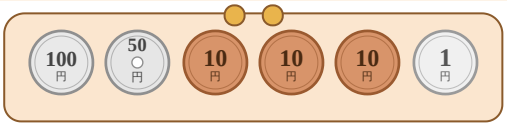

答え 181 円

150＋30＋1＝181円。

5 30円と 同じ ほうを えらぼう。

ア

イ

ア ・ イ

10円が 3まいで 30円。イは 20円。

6 60円と 同じ ほうを えらぼう。

ア

イ

ア ・ イ

50＋10＝60円。アは 40円。

7 100円と 同じ ほうを えらぼう。

ア

イ

ア ・ イ

50＋50＝100円。イは 80円。

8 おさいふの 中は ぜんぶで 何円ですか。 ★チャレンジ

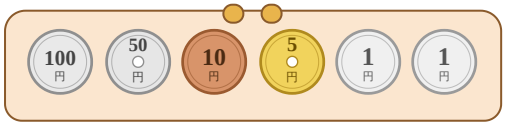

答え 167 円

100＋50＝150、150＋10＝160、160＋5＋1＋1＝167円。

9 おさいふの 中は ぜんぶで 何円ですか。 ★チャレンジ

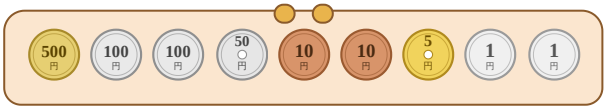

答え 777 円

500＋200＝700、700＋50＝750、750＋20＝770、770＋7＝777円。

答えを 見たら、もう いちど やってみよう。 赤い 字が 答え。

しゅるいごとに 数えよう

ステップ 2／8　きほん

れい　10円 2まいと 1円 3まい → 20円＋3円＝23円
同じ しゅるいの お金を 先に まとめると、数えやすいね。

1 しゅるいごとに 数えよう。　きほん

10円の 分：30 円　1円の 分：2 円

ぜんぶで 32 円

10円が 3まいで 30円、1円が 2まいで 2円。30＋2＝32円。

2 しゅるいごとに 数えよう。　きほん

10円の 分：40 円　5円の 分：5 円

1円の 分：2 円

ぜんぶで 47 円

10円が 4まいで 40円。5＋1＋1＝7円。40＋7＝47円。

3 ぜんぶで 何円ですか。

答え 73 円

50＋20＋3＝73円。

4 ぜんぶで 何円ですか。

答え 86 円

50＋30＋5＋1＝86円。

5 ぜんぶで 何円ですか。

答え 222 円

200＋20＋2＝222円。

6 ぜんぶで 何円ですか。

答え 131 円

100＋20＋10＋1＝131円。

7 お金が ばらばらに 入っています。ぜんぶで 何円ですか。　★チャレンジ

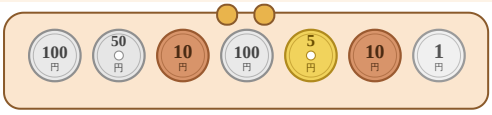

答え 276 円

100円が 2まいで 200円、50円が 1まい、10円が 2まいで 20円、5円と 1円で 6円。200＋50＋20＋6＝276円。

8 お金が ばらばらに 入っています。ぜんぶで 何円ですか。　★チャレンジ

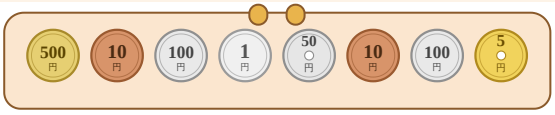

答え 776 円

500＋200＝700、700＋50＝750、750＋20＝770、770＋6＝776円。

答えを 見たら、もう いちど やってみよう。　　赤い 字が 答え。

同じ 金がくに かえよう

ステップ 3／8　きほん

れい　20円 → 10円が 2まい。金がくは 同じ 20円。
まい数が かわっても、金がくは かわりません。

1 おなじ 金がくに かえます。何まいに なりますか。　きほん

10円 → 1円 が [10] まい　100円 → 10円 が [10] まい　50円 → 10円 が [5] まい

500円 → 100円 が [5] まい　100円 → 50円 が [2] まい　500円 → 50円 が [10] まい

① 1円が 10まいで 10円 ② 10円が 10まいで 100円 ③ 10円が 5まいで 50円 ④ 100円が 5まいで 500円 ⑤ 50円が 2まいで 100円 ⑥ 50円が 10まいで 500円

2 何まいに なりますか。　きほん

300円→100円が [3] まい　200円→50円が [4] まい　70円→10円が [7] まい

1000円→100円が [10] まい　1000円→500円が [2] まい　40円→5円が [8] まい

① 100円が 3まいで 300円 ② 50円が 4まいで 200円 ③ 10円が 7まいで 70円 ④ 100円が 10まいで 1000円 ⑤ 500円が 2まいで 1000円 ⑥ 5円が 8まいで 40円

3 ぜんぶで 何円に なりますか。

10円が 13まいで [130] 円　50円が 4まいで [200] 円　100円が 12まいで [1200] 円

5円が 6まいで [30] 円　500円が 3まいで [1500] 円　10円が 25まいで [250] 円

① 10円が 10まいで 100円、あと 3まいで 30円。130円 ② 50＋50＋50＋50＝200 ③ 100円が 10まいで 1000円、あと 2まいで 200円。1200円 ④ 5×6＝30 ⑤ 500＋500＋500＝1500 ⑥ 10円が 20まいで 200円、あと 5まいで 50円。250円

4 同じ 金がくに かえると、何まいに なりますか。　★チャレンジ

300円→50円が [6] まい　1000円→50円が [20] まい

150円→10円が [15] まい　500円→10円が [50] まい

① 100円は 50円 2まい。300円は 100円の 3つ分だから 2×3＝6まい ② 100円が 10こ分だから 2×10＝20まい ③ 100円は 10円 10まい、50円は 5まい。10＋5＝15まい ④ 100円は 10円 10まい。500円は 100円の 5つ分だから 10×5＝50まい

答えを 見たら、もう いちど やってみよう。　赤い 字が 答え。

ちょうど はらおう

ステップ 4／8 れんしゅう

ポイント お店の 人に、ちょうどの 金がくを わたそう。
下に 書いてある お金の しゅるいと まい数だけ つかえます。

1 130円を はらう くみあわせを 書きましょう。 きほん

100円 2まいまで　10円 5まいまで

100円 **1** まい　10円 **3** まい

100＋10＋10＋10＝130

2 170円を はらう くみあわせを 書きましょう。 きほん

100円 1まいまで　50円 2まいまで　10円 4まいまで

100円 **1** まい　50円 **1** まい

10円 **2** まい

100＋50＋10＋10＝170

3 320円を はらう くみあわせを 書きましょう。 きほん

100円 3まいまで　50円 1まいまで　10円 4まいまで

100円 **3** まい　50円 **0** まい

10円 **2** まい

100＋100＋100＋10＋10＝320。50円は つかいません。

4 260円を はらう くみあわせを 書きましょう。 きほん

100円 3まいまで　50円 1まいまで　10円 4まいまで

100円 **2** まい　50円 **1** まい

10円 **1** まい

100＋100＋50＋10＝260

5 100円を はらう くみあわせを ぜんぶ 書きましょう。 ★チャレンジ

100円 1まいまで　50円 2まいまで　10円 4まいまで

① **100円 1まい**

② **50円 2まい**

10円は 4まいまでなので、10円だけでは 100円に ならない。答えは 2とおり。

6 150円を はらう くみあわせを ぜんぶ 書きましょう。 ★チャレンジ

100円 1まいまで　50円 2まいまで　10円 5まいまで

① **100円 1まい・50円 1まい**

② **100円 1まい・10円 5まい**

③ **50円 2まい・10円 5まい**

100円を つかう：100＋50、100＋10×5。100円を つかわない：50＋50＋10×5。ぜんぶで 3とおり。

答えを 見たら、もう いちど やってみよう。　赤い 字が 答え。

おかいものと おつり

ステップ 5／8 れんしゅう

ポイント **おやつや プレゼントを 買おう！ おつりも たしかめてね。**
あわせた 金がくを 出してから、出す お金から ひきます。

1 あめを 1つ 買います。100円 出すと、おつりは 何円ですか。 きほん

あめ 70円　出す お金 100円

しき 100−70＝30

おつり 30 円

2 ジュースを 1つ 買います。500円 出すと、おつりは 何円ですか。 きほん

ジュース 260円　出す お金 500円

しき 500−260＝240

おつり 240 円

3 パンと りんごを 1つずつ 買います。

パン 80円　りんご 130円　出す お金 500円

しき 80＋130＝210、500−210＝290

あわせて 210 円　おつり 290 円

4 ミルクと アイスを 1つずつ 買います。

ミルク 90円　アイス 240円　出す お金 500円

しき 90＋240＝330、500−330＝170

あわせて 330 円　おつり 170 円

5 シールと 本を 1つずつ 買います。

シール 180円　本 470円　出す お金 1000円

しき 180＋470＝650、1000−650＝350

あわせて 650 円　おつり 350 円

6 えんぴつと けしゴムと ノートを 1つずつ 買います。 ★チャレンジ

えんぴつ 60円　けしゴム 90円　ノート 120円　出す お金 500円

しき 60＋90＋120＝270、500−270＝230

あわせて 270 円　おつり 230 円

3つの ときも、まず ぜんぶ たしてから ひく。60＋90＝150、150＋120＝270。

答えを 見たら、もう いちど やってみよう。　赤い 字が 答え。

お金は 足りるかな？

ステップ 6／8 れんしゅう

ポイント ほしい ものを 見つけた！ お金は 足りるかな？
1・2は、買えるかどうかと わけを 書きましょう。

1 250円 もっています。230円の ノートを 買えますか。 きほん

ノート

ねだん 230円
もっている お金 250円

買える ・ 買えない

わけ 250−230＝20。20円 のこるから。

もっている お金の ほうが 多いので 買える。

2 300円 もっています。340円の アイスを 買えますか。 きほん

アイス

ねだん 340円
もっている お金 300円

買える ・ 買えない

わけ 340−300＝40。40円足りないから。

ねだんの ほうが 高いので 買えない。

3 150円 もっています。190円の シールには 何円 足りませんか。

シール

ねだん 190円
もっている お金 150円

しき 190−150＝40

答え 40 円

ねだんから もっている お金を ひく。190−150＝40円。

4 400円 もっています。560円の 本には 何円 足りませんか。

本

ねだん 560円
もっている お金 400円

しき 560−400＝160

答え 160 円

ねだんから もっている お金を ひく。560−400＝160円。

5 500円 もっています。パンと ジュースを 買えますか。買えるなら、のこりは 何円？ ★チャレンジ

パン
140円

ジュース
110円

もっている お金
500円

しき 140＋110＝250、500−250＝250

買える ・ 買えない のこり 250 円

2つの ねだんを あわせて 250円。500円より 小さいので 買える。のこりは 500−250＝250円。

6 600円 もっています。本と ジュースを 買えますか。買えないなら、何円 足りない？ ★チャレンジ

本
380円

ジュース
250円

もっている お金
600円

しき 380＋250＝630、630−600＝30

買える ・ 買えない 足りない 30 円

あわせて 630円。600円より 大きいので 買えない。630−600＝30円 足りない。

答えを 見たら、もう いちど やってみよう。 赤い 字が 答え。

たしかめテスト ①

ステップ 7／8　テスト

テスト　1もん 10点 ／ ぜんぶで 100点。
お金を 数える・かえる もんだいです。

ごうけい ＿＿＿＿＿ ／100点

1 ぜんぶで 何円ですか。　10点
20＋5＋2＝27円。
10円 10円 5円 1円 1円
答え 27 円

2 ぜんぶで 何円ですか。　10点
50＋20＋5＝75円。
50円 10円 10円 5円
答え 75 円

3 ぜんぶで 何円ですか。　10点
100＋50＋20＋1＝171円。
100円 50円 10円 10円 1円
答え 171 円

4 ぜんぶで 何円ですか。　10点
200＋50＋5＋2＝257円。
100円 100円 50円 5円 1円 1円
答え 257 円

5 ぜんぶで 何円ですか。　10点
500＋100＋30＋1＝631円。
500円 100円 10円 10円 10円 1円
答え 631 円

6 300円を 100円だけに かえます。100円は 何まいに なりますか。　10点
300円 → 100円
答え 3 まい

7 100円を 50円だけに かえます。50円は 何まいに なりますか。　10点
100円 → 50円
答え 2 まい

8 500円を 100円だけに かえます。100円は 何まいに なりますか。　10点
500円 → 100円
答え 5 まい

9 60円と 同じ ほうを えらびましょう。　10点
50＋10＝60円。イは 10円が 5まいで 50円。
ア 50円 10円　イ 10円 10円 10円 10円 10円
ア・イ

10 180円を はらう くみあわせを 書きましょう。　10点
100＋50＋10＋10＋10＝180。
100円 1まいまで　50円 1まいまで　10円 4まいまで
100円 1 まい　50円 1 まい　10円 3 まい

答えを 見たら、もう いちど やってみよう。　赤い 字が 答え。

たしかめテスト ②

ステップ 8／8　テスト

テスト

1もん 10点 ／ ぜんぶで 100点。

しきや わけを 書く もんだいは、考え方 5点＋答え 5点。3・4は わけも 書こう。

ごうけい ＿＿＿＿ ／100点

1 80円の ガムを 1つ 買います。100円 出すと、おつりは 何円ですか。　10点

しき 100−80＝20　おつり 20 円

2 650円の 本を 1さつ 買います。1000円 出すと、おつりは 何円ですか。　10点

しき 1000−650＝350　おつり 350 円

3 450円 もっています。480円の 本は 買えますか。　10点

買える ・ 買えない

わけ 480−450＝30。30円足りないから。

4 250円 もっています。230円の ノートは 買えますか。　10点

買える ・ 買えない

わけ 250−230＝20。20円 のこるから。

5 120円の ノートと 160円の シールを 買います。500円 出すと、おつりは 何円ですか。　10点

しき 120＋160＝280、500−280＝220　あわせて 280 円　おつり 220 円

6 90円の ミルクと 240円の アイスを 買います。500円 出すと、おつりは 何円ですか。　10点

しき 90＋240＝330、500−330＝170　あわせて 330 円　おつり 170 円

7 200円 もっています。260円の アイスには 何円 足りませんか。　10点

しき 260−200＝60　答え 60 円

8 500円 もっています。140円の パンと 110円の ジュースを 買うと、のこりは 何円？　10点

しき 140＋110＝250、500−250＝250　のこり 2

9 260円を はらう くみあわせを 書きましょう。　10点

100＋100＋50＋10＝260。

3まいまで　1まいまで　4まいまで

100円 2 まい　50円 1 まい　10円 1 まい

10 ぜんぶで 何円ですか。　10点

300＋50＋10＋5＋1＝366円。

答え 366 円

答えを 見たら、もう いちど やってみよう。　赤い 字が 答え。