小学６年生

円の面積（１）

日にち

月　　日

名前

◆下のおうぎ形の面積を求めなさい。

（１）

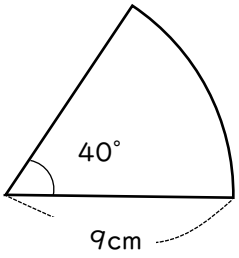

（　　）

（２）

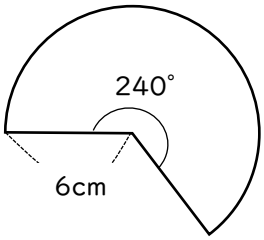

（　　）

◆下の図の色のついた部分の面積を求めなさい。

（１）



（　　）

（２）Ｏは、おうぎ形の中心

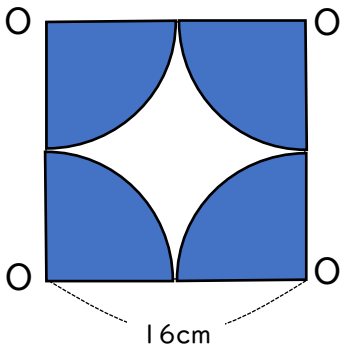

（　　）

（３）

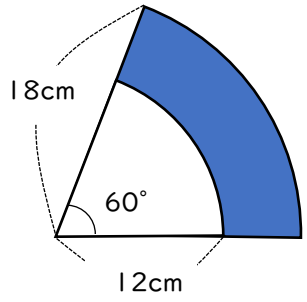

（　　）

（４）

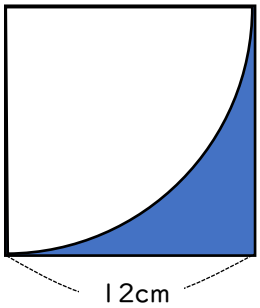

（　　）