小学３年生

円と球（5）

日にち　　月　　日

名前

◆下の図は、12この球を入れたはこを、上から見た形です。はこのたての長さは32cmで、はこの高さも球の高さと同じになりました。この図を見ながら、次の問いに答えましょう。(球はすべて同じ大きさです)

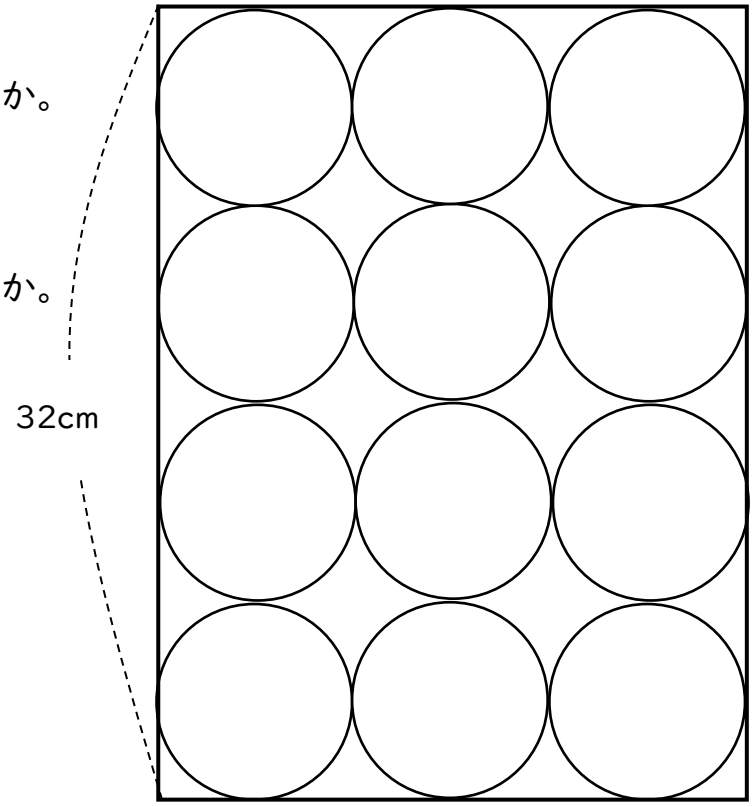

(1) 中に入っている円の直径は何cmですか。

(　　)

(2) 中に入っている円の半径は何cmですか。

(　　)

(3) このはこの高さは何cmですか。

(　　)

(4) このはこの横の長さは何cmですか。

(　　)

(5) このはこのまわりの長さは何cmですか。　(　　)

◆下と同じ図を書きましょう。

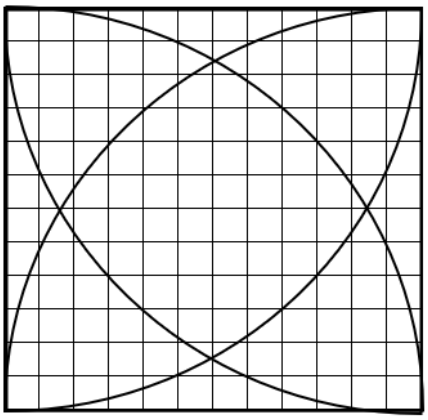



小学生学習プリントは『すたぺんドリル』(https://startoo.co/sutapen/)