重さ(4)

ひにち　　がつ　　にち

なまえ

◆　はかりがさす重さを答えましょう。

(1)

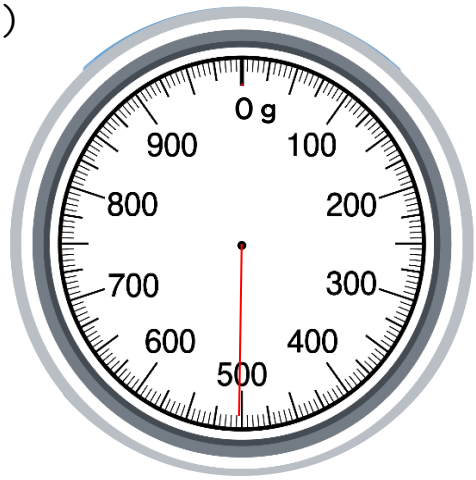

(　500　g　)

(2)

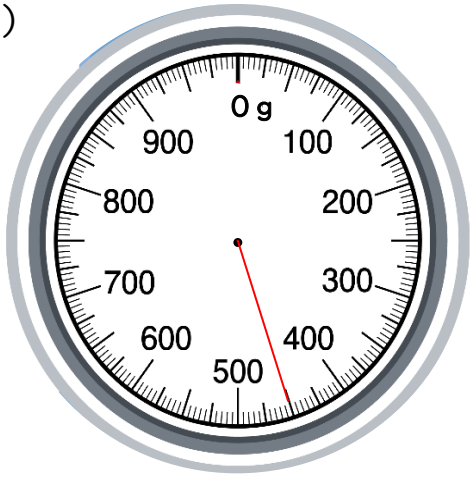

(　450　g　)

(3)



(　850　g　)

(4)

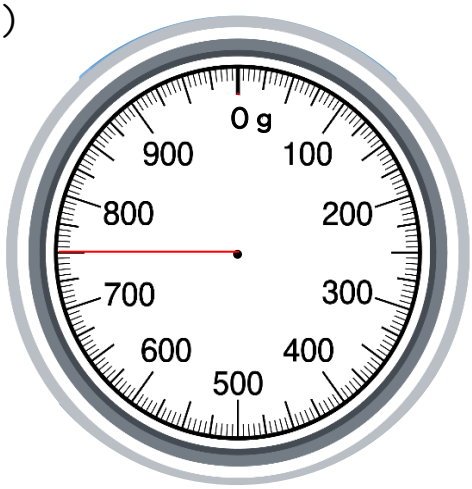

(　750　g　)

◆はかりについて次の問いに答えましょう。

(1) 1めもりは何gですか。　(　5g　)

(2) 中心の黒点から350gのめもりに赤線をひきましょう。



小学生学習プリントは『すたぺんドリル』(https://startoo.co/sutapen/)