小学３年生　理科

磁石の性質(2)

ひにち

がつ　　にち

なまえ

① じしゃくについて、(　　) の中の正しい言葉を〇でかこみましょう。

クリップにじしゃくを近づけると、つながってつきます。じしゃくについているクリップをゆっくりとはなすと、つながっていたクリップは
(ついたままになります・はなれます)。

じしゃくについた鉄は (じしゃく・アルミニウム・石) になります。

じしゃくに引きつけられた鉄は、直せつついていなくても、
(アルミニウム・石・じしゃく) になります。

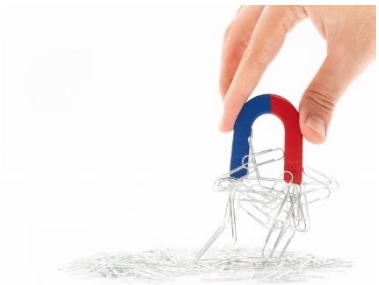

② どちらのはしがＮきょく・Ｓきょくかわからないじしゃくがあります。
これにべつのじしゃくを近づけたけっかを見て、きょくのかくにんをすることにしました。
(　　) の部分はＮきょくとＳきょくのどちらか書きましょう。
※「⬅➡」はしりぞけあっていて、「➡⬅」は引きつけ合っていることを表します。

ア

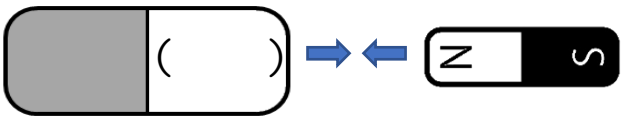

イ

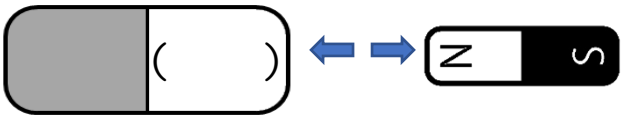

ウ

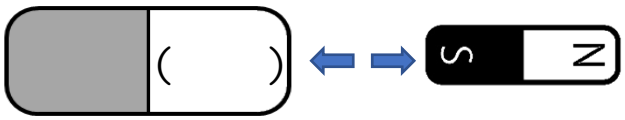

エ

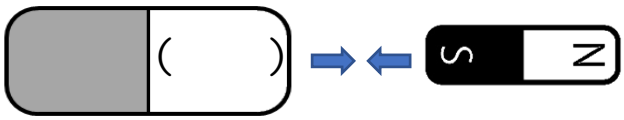

オ

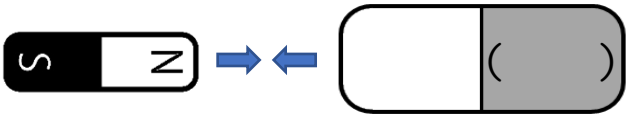

カ

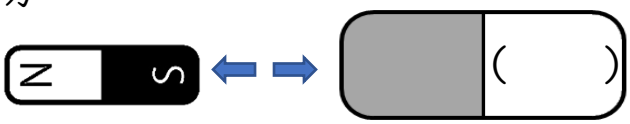

小学生学習プリントは『すたぺんドリル』(https://startoo.co/sutapen/)